感覚器官

外界からの＿＿＿を受けとる器官。

感覚器官	刺激	感覚
		視覚
		聴覚
		嗅覚
		味覚
		触覚

目の断面図

＿＿＿の大きさを変え目に入る光の量を調節する。

光が通る穴。

光を屈折させ網膜上に像をつくる。ふくらみを変えることができ＿＿＿＿＿している。

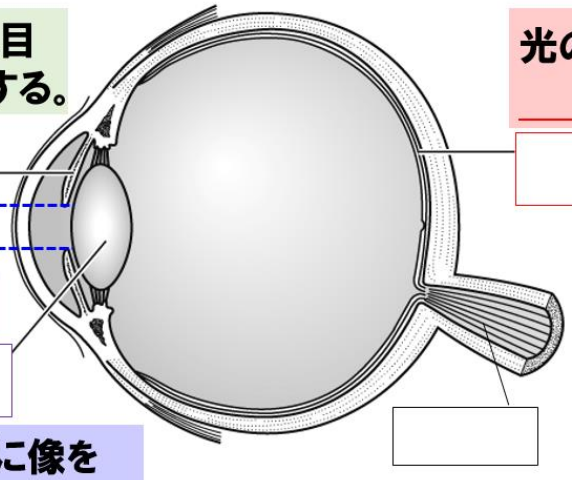

光の刺激を受けとる＿＿＿＿＿がある。

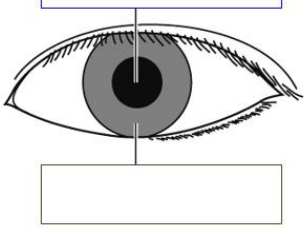

耳の内部のようす

鼓膜の振動を＿＿＿＿に伝える。

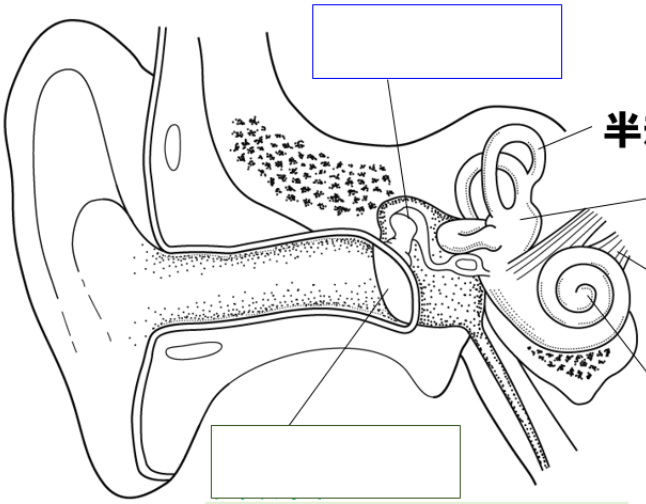

半規管

前庭

空気の＿＿＿をとらえる。

音の刺激を受けとる＿＿＿＿＿がある。